姓名 _____

练习
10-9

应用题: 找出序列

找出序列解决问题。

1.



按从小到大的顺序排列小熊身上的号码。

616, 636, _____, 656, _____

这个序列的规律是什么?

+20

下一个号码是多少?

696

2.



按从小到大的顺序排列鹅身上的号码。

_____, _____, _____, _____

这个序列的规律是什么?

_____

下一个号码是多少?

_____

3. 下一个信箱号码是多少?



751 Ⓐ　791 Ⓑ　841 Ⓒ　881 Ⓓ

4. **代数** 看下面的序列，缺少哪个数字?

400, 425, _____, 475

470 Ⓐ　465 Ⓑ　450 Ⓒ　435 Ⓓ

Copyright © Pearson Education, Inc., or its affiliates. All Rights Reserved. 2