姓名 _____

练习
10-6

5、10、100跳数到1000

在数线上跳数，写出缺少的数字。

1.

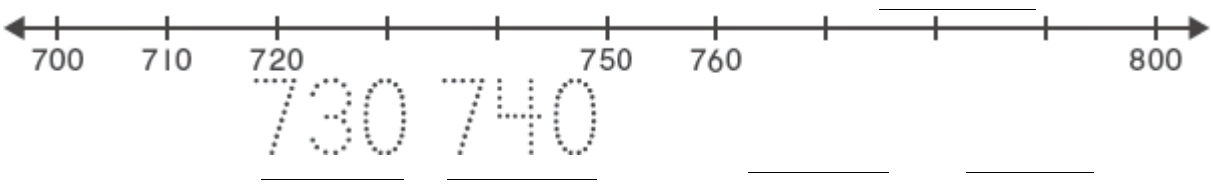

2.

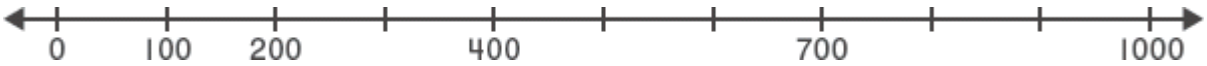

3.

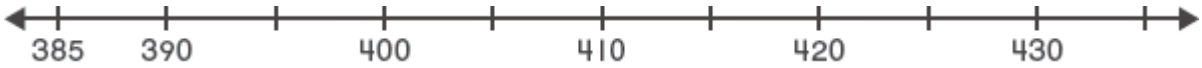

4. Lloyd 在数线上数 25、30、35，再往下数三个数是多少？

Ⓐ 36, 37, 38

Ⓑ 37, 39, 41

Ⓒ 40, 42, 44

Ⓓ 40, 45, 50

5. Mary 在数线上跳数. 她数了 330、340、350，她是几个一数的？

Ⓐ 2

Ⓑ 4

Ⓒ 5

Ⓓ 10

6. 小日记 如果你用 5 跳数, 你怎样找出下一个数字？

_____

Copyright © Pearson Education, Inc., or its affiliates. All Rights Reserved. 2