姓名 _____

练习
10-3

读、写到1000的数

圈与展开式相对应的位值方块。
写出标准形式。

1. 200 + 70 + 5

二百
七十五

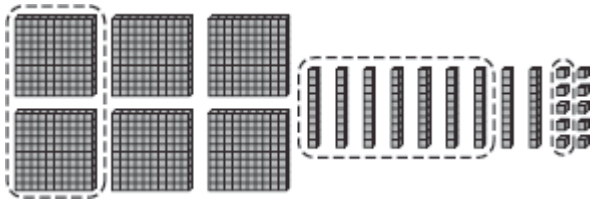

275

2. 100 + 40 + 0

一百
四十

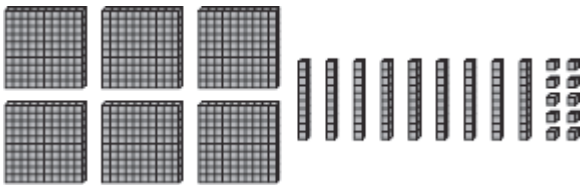

_____

3. 300 + 60 + 2

三百
六十二



_____

4. 停车场停了329 辆车。

329的展开式是哪一个?

Ⓐ 200 + 90 + 3

Ⓑ 200 + 20 + 9

Ⓒ 300 + 20 + 9

Ⓓ 300 + 90 + 2

5. **推理** 把这些数放在不同数位能组成的最大的数字是多少?

5 7 2

Ⓐ 257

Ⓑ 572

Ⓒ 725

Ⓓ 752

Copyright © Pearson Education, Inc., or its affiliates. All Rights Reserved.