姓名 _____

复习
13-7

小数位值

一个方格可以用来表示十分之一和百分之一。
要表示0.3, 你可以把10 个部分中的3 个部分用阴影涂好。

0.3
10部分中的3个部分用阴影涂好

要表示 0.30, 你要把100个部分中的30个部分用阴影涂好。



0.30
100部分中的30个部分用阴影涂好
parts are shaded.

百数方格的一个部分可以比成一个便士。因为方格中的一个部分等于0.01，一便士等于一美元的一百分之一。

十分位和百分位是有联系的。在上面的例子里，3个十分位或者说是30个百分位被阴影涂好或者说是 0.3 和0.30. 这些数字是相等的: 0.3 = 0.30.

为每个阴影部分写出文字式和小数。

1. 

_____

2.

_____

用阴影涂上每个方格表示的小数。

3. 0.57

4. 0.4



5. 数字概念　　哪个数比较大, 0.04 还是 0.4? 请解释。

_____

_____

_____

_____

Copyright © Pearson Education, Inc., or its affiliates. All Rights Reserved.