姓名 _____

练习
13-4

分数和小数

写出一个分数和小数来表示阴影的部分是多少。

1. 

_____

2. 

_____

3. 

_____

画一个模型表示每个小数。

4. 0.16 **5.** 1.7 **6.** 0.78

把每个分数写成小数。

7. $\frac{1}{100}$ **8.** $9\frac{4}{10}$ **9.** $\frac{6}{10}$ **10.** $\frac{17}{100}$

_____ _____ _____ _____

把每个小数相乘，然后写出分数的最简式。

11. 0.5 **12.** 0.70 **13.** 0.3 **14.** 3.60

_____ _____ _____ _____

15. 在小数模型里, 多少条等于10个小正方形?

A 70 条 **B** 10条 **C** 7 条 **D** 1 条

16. 写并解释 解释你如何一步一步把 $\frac{36}{10}$ 写成小数。

_____

_____

_____

Copyright © Pearson Education, Inc., or its affiliates. All Rights Reserved. 4