姓名 _____

复习
11-7

分数顺序

你如何排出分数的顺序?

从小到大写出 $\frac{2}{3}$, $\frac{1}{6}$, $\frac{7}{12}$ 的顺序。

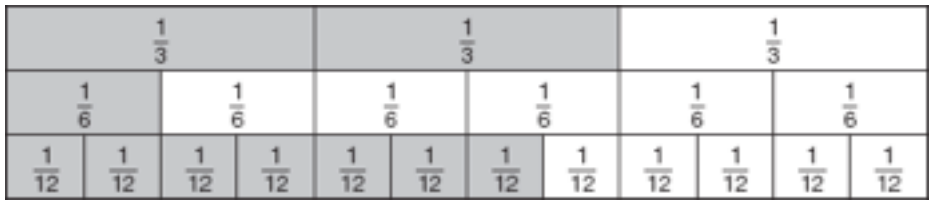

找出有公分母的等分数。

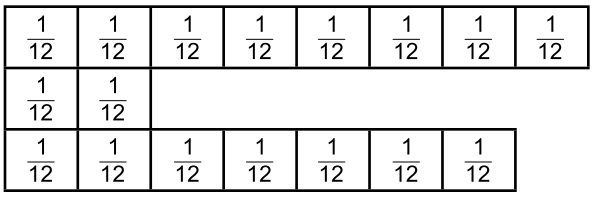

比较分子。
把分数从最小到最大排出顺序。
$\frac{2}{12} < \frac{7}{12} < \frac{8}{12}$。

从小到大写出分数的顺序。

1. $\frac{3}{10}$, $\frac{3}{6}$, $\frac{2}{5}$

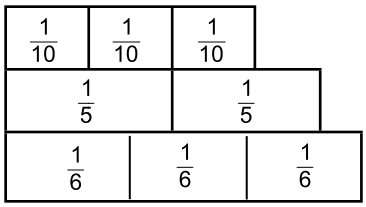

2. $\frac{3}{8}$, $\frac{1}{3}$, $\frac{5}{12}$

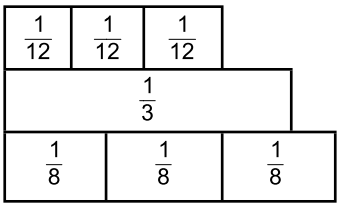

找出有公分母的等分数，然后把分数从小到大排出顺序。

3. $\frac{1}{2}$, $\frac{3}{4}$, $\frac{4}{6}$ _____

4. $\frac{3}{4}$, $\frac{2}{3}$, $\frac{7}{8}$ _____

5. $\frac{3}{10}$, $\frac{1}{2}$, $\frac{4}{5}$ _____

6. $\frac{1}{2}$, $\frac{3}{10}$, $\frac{3}{5}$ _____

7. $\frac{2}{3}$, $\frac{5}{6}$, $\frac{1}{2}$ _____

8. $\frac{5}{8}$, $\frac{3}{4}$, $\frac{3}{8}$ _____