姓名 _____

复习
11-7

制造新的形状

你可以把一个形状剪出来然后把剪出来的几片重组成一个新的形状。

在一个六边形里画一个对角线，
六边形就会变成2个梯形。

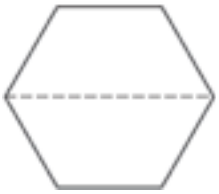

把2个梯形重组成一个平行四边形。

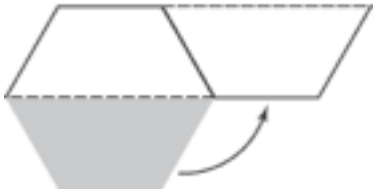

第**1**和**2**题, 照画和剪出下面的形状。剪出虚线的部份。把剪出来的几片重组成一个新的形状。画出新的形状。你制造了哪个形状?

1.

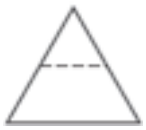

_____

2.

_____

第**3**–**5**题, 想一想如果你把虚线的部份剪掉然后重组，你可以把它变成所提出的新形状吗?

3. 一个长方形?

_____

4. 一个三角形?

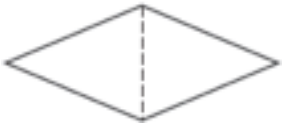

_____

5. 一个正方形?

_____

6. 用长方形剪出来的4个三角形，你可以制造几个新形状?
你怎么知道?

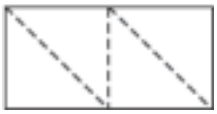

_____

Copyright © Pearson Education, Inc., or its affiliates. All Rights Reserved.