姓名 _____

制造新的形状

第1–4题, 照着画或剪出下面的形状。剪出虚线的部份。把剪出来的几片重组成一个新的形状。写出新的形状的名字。

1.

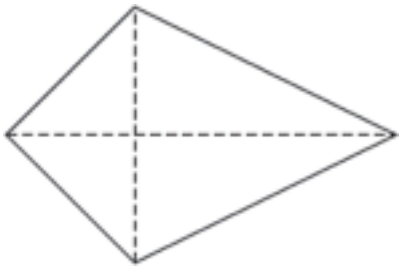

2.

3.

4.

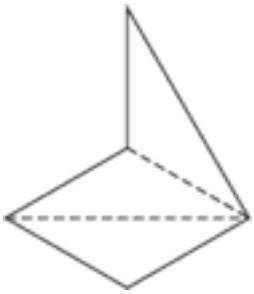

5. **想一想** Lena在做一个片面的图。她把一个形状剪成两片然后再把两片重组成下面的形状。

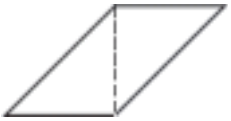

她一开始的形状是什么?

A

B

C

D

6. 画个图来显示你如何把旁边的四个三角形重组成一个凹形的六边形。

Copyright © Pearson Education, Inc., or its affiliates. All Rights Reserved.