姓名 _____

练习
11-6

组合和区分形状

第1–3题, 画对角来制造所要的形状。

1.

制造 2个三角形
和1个梯形。

2.

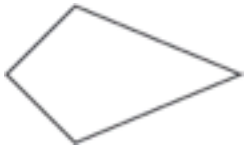

制造 2个不同
大小的三角形。

3

制造 2个三角形
和 1个菱形。

第4–6题, 用Lenny的形状来回答。如果需要可以照着画和剪出来。

Lenny的形状

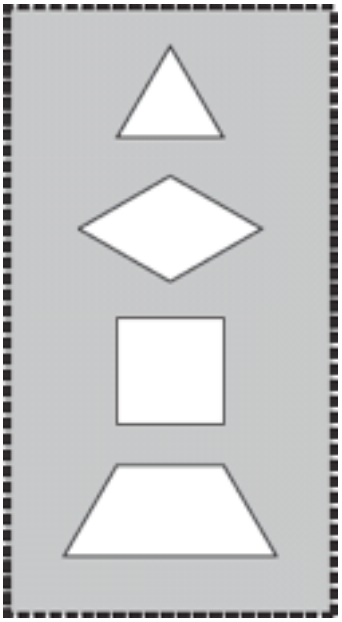

4. 哪一个形状用3次可以制造这个形状?

_____

5. 哪一个形状用4次可以制造这个形状?

_____

6. 哪一个形状用4次可以制造这个形状?

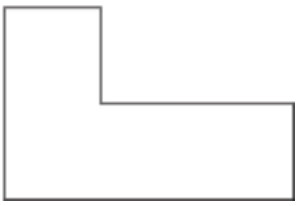

_____

7. Maria 在下面的形状画了一个对角来把形状分成两半。
她制造了哪两个形状?

A 2 个菱形 **B** 2 两个梯形 **C** 2 个三角形 **D** 2 平行四边形

8. 如果你在一个六边形上画几个对角，你可以制造哪几个不同的形状?
请给至少两个例子。

_____

_____

Copyright © Pearson Education, Inc., or its affiliates. All Rights Reserved.