姓名 _____

复习
11-4

三角形

三角形 是有三个边的多角形。

三角形的名字来自于形状边的长度。

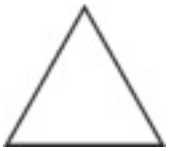

正三角形
所有的边都是一样的

等腰三角形
至少2边是一样的长度

斜角三角形
所有的边都是不一样的长度

三角形的名字也可以是来自于形状的角度。



直角三角形
一个角是直角

锐角三角形
3个角都是锐角

钝角三角形
一个角是钝角

1. 写下下面的形状是正三角形, 等腰三角形 还是 斜角三角形。

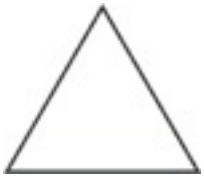

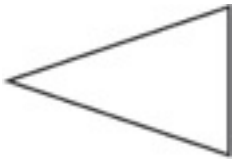

_____ _____ _____

2. 写下下面的三角形是直角,锐角 还是 钝角。

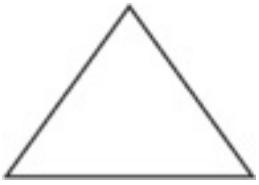

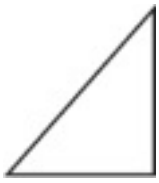

_____ _____ _____

Copyright © Pearson Education, Inc., or its affiliates. All Rights Reserved.