姓名 _____

复习
11-2

角度

一个角度是来自于两条射线，这两条射线必须有一样的终结点。
一个角度的终结点也就是一个角度的顶点。
有三种角度：直角，锐角 和 钝角。

一条射线是一条线的一部份。一条射线有一个终结点然后另一边永远不会停止

一个直角会组成一个直角区域

一个锐角的角度小于一个直角的角度

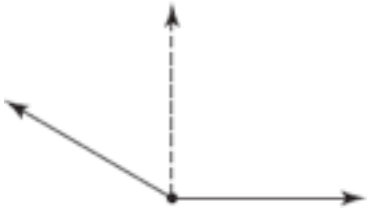

一个钝角的角度大于一个直角的角度

如果线, 线段 或 射线垂直连结或交叉会产生直角。

下面的图形是 直角, 锐角 还是 钝角

1.

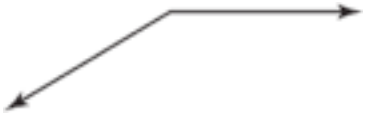

_____

2.

_____

3.

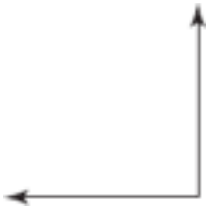

_____

4.

_____

5. **解释** 你要怎么用一个直角来找出另一个角度的名词?

_____

_____

_____

Copyright © Pearson Education, Inc., or its affiliates. All Rights Reserved. 3