姓名 _____

练习
10-4

改变数字的百位和十位

用位值方块画图或心算解决问题。

写数字。

1. 从 148开始。



148 + 40 = 188

148 + 400 = 548

2. 从594开始



594 − 30 = _____

594 − 300 = _____

3. Suki 有 350 分， 她又得了 30分。

现在Suki有多少分?

320	353	360	380
Ⓐ	Ⓑ	Ⓒ	Ⓓ

4. Abdul 有 687 分， 他丢了100 分。

现在Abdul有多少分?

787	687	686	587
Ⓐ	Ⓑ	Ⓒ	Ⓓ

5. 代数 写数字。

还要几个百才到5百?



+ _____ = 500

Copyright © Pearson Education, Inc., or its affiliates. All Rights Reserved.