姓名 _____

练习
10-3

用物体做除法: 除法就是分享

画图表示每组有多少个，还有多少个剩下来。

1. 57片 CD 在 8 个CD包里

_____

2. 62 个贴画 分5卷

_____

3. 44 棵植物 分6排

_____

4. 37把椅子 为9张桌子

_____

5 -8, 用示范完成每个除法算式。

5. 27 ÷ ☐ = ☐ R3

6. ☐ ÷ 9 = ☐

7. ☐ ÷ ☐ = ☐



8. ☐ ÷ ☐ = ☐ R ☐



9. Ken 有72块大理石。他决定和他的朋友分享大理石，这样他们可以玩一个游戏。 下面哪一个示范表示Ken如何分享他的大理石。

A

C

B

D

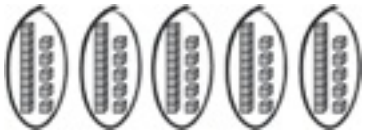

10. 写并解释 Horne先生的农场有53头牛。每天有4个人挤牛奶。每个人挤相同数量的牛吗？用一个示范帮你。

_____

_____

Copyright © Pearson Education, Inc., or its affiliates. All Rights Reserved.