姓名 _____

复习
13-3

常见形状的周长

用这些形状的特性来找出其他边的边长，然后找出周长。

长方形

两对边有一样的长度。

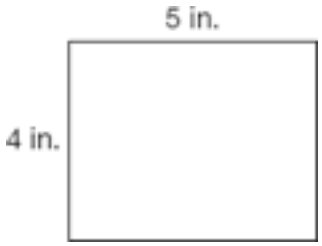

4吋 + 5吋 + 4吋 + 5吋 = 18吋

正方形

4个边都有一样的长度。

6公分 + 6公分 + 6公分 + 6公分 = 24公分

正三角形

3个边都有一样的长度。

5英尺 + 5英尺 + 5英尺 = 15英尺

找出多边形的周长。

1.

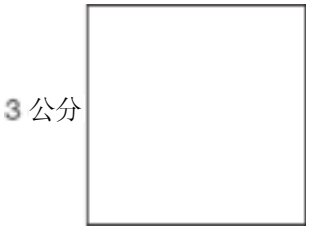

_____

2.

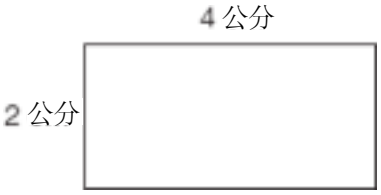

_____

3.

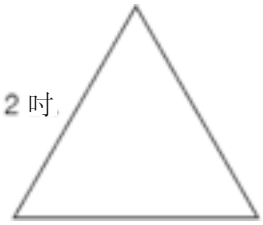

_____

4.



_____

5. 解释 两个不同大小的正方形可以有一样的周长吗？请解释。

_____

_____

Copyright © Pearson Education, Inc., or its affiliates. All Rights Reserved. 3